Première étude de documents

Exercice 1 : Sam doit meubler sa chambre pour un budget total de 1500€. Il réalise un plan (document 1), puis il se rend au magasin « Les beaux meubles », proche de chez lui. Il repère les articles qui sont dans le document 2.
Un vendeur lui propose alors de louer une remorque pour ramener ses achats chez lui, selon les conditions du document 3.
Avec la location de remorque, Sam va-t-il pouvoir respecter le budget prévu ?

Document 1 : plan de la chambre

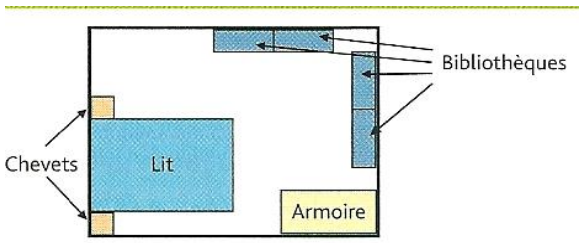

Document 2 : choix des meubles

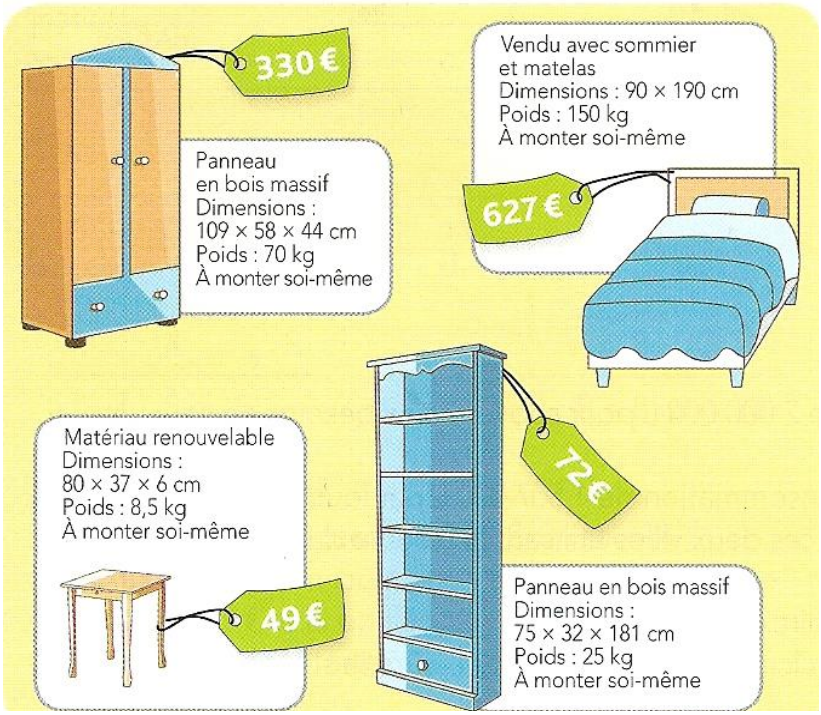

Document 3 : tarif des remorques

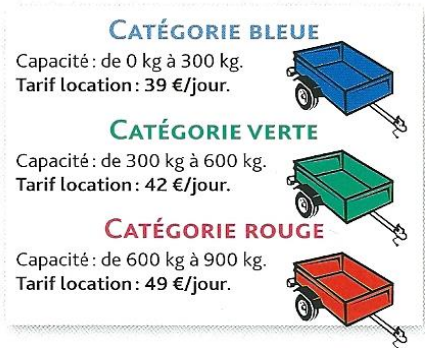

Première étude de documents

Exercice 1 : Sam doit meubler sa chambre pour un budget total de 1500€. Il réalise un plan (document 1), puis il se rend au magasin « Les beaux meubles », proche de chez lui. Il repère les articles qui sont dans le document 2.
Un vendeur lui propose alors de louer une remorque pour ramener ses achats chez lui, selon les conditions du document 3.
Avec la location de remorque, Sam va-t-il pouvoir respecter le budget prévu ?

Document 1 : plan de la chambre

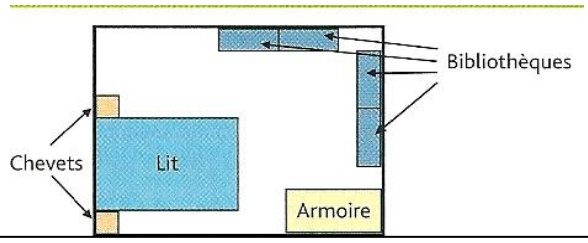

Document 2 : choix des meubles

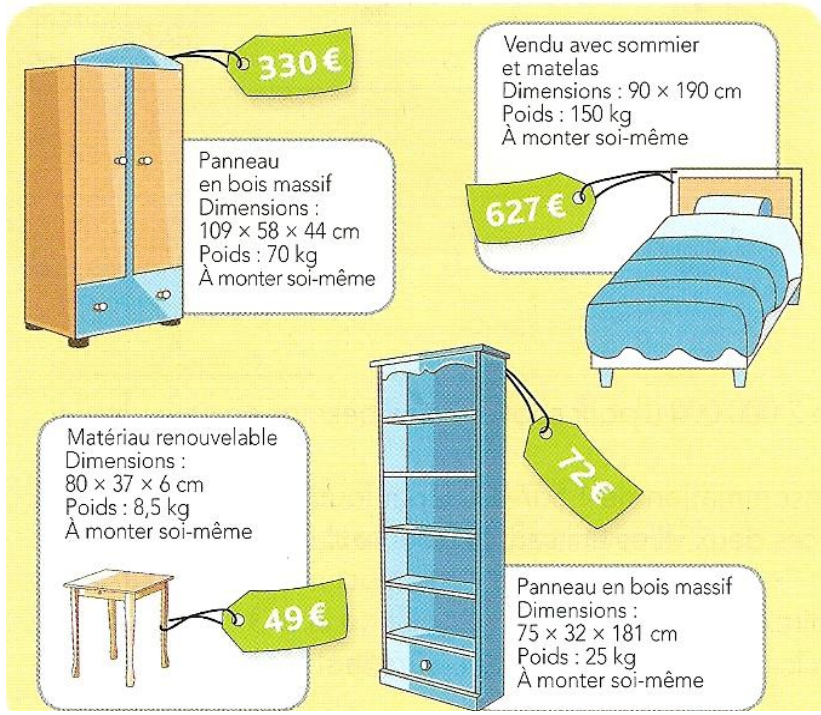

Document 3 : tarif des remorques

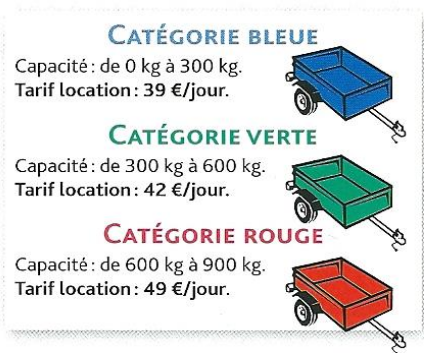

Exercice 2 : on considère les trois documents suivants, qui concernent le château de Versailles.

1. Combien de temps a duré la construction de la Galerie des Glaces ?
2. De combien d'année le règne de Louis XV a-t-il été plus long que le règne de Louis XVI ?
3. A ce jour, combien reste-t-il de miroirs d'origine dans la Galerie des Glaces ?
4. Une famille de deux adultes et trois enfants (de 4 ans, 8 ans et 13 ans) souhaite se rendre à la Galerie des Glaces. Quelle somme économise-t-elle en achetant des billets au tarif réduit par rapport au tarif plein ?

Doc. 1 La monarchie française de 1610 à 1792



Doc. 2 La galerie des Glaces en quelques chiffres

La galerie des Glaces du château de Versailles a été conçue par l'architecte Jules Hardouin-Mansart et construite entre 1678 et 1684. Elle mesure 73 mètres de long, 10,50 mètres de large et 12,30 mètres de hauteur. Elle comporte 17 fenêtres cintrées faisant face à 17 arcades, chacune ornée de 21 miroirs identiques. Chaque miroir occupe une surface de 0,65 m^2. Depuis sa création, 48 miroirs ont été changés, les autres sont d'origine.

Chaque année, elle accueille 3,5 millions de visiteurs.

Doc. 3 Billetterie

Plein tarif
15 € adulte — 13 € pour les moins de 18 ans

Tarif réduit *(comité d'entreprise)*
13,50 € adulte — 11,50 € pour les moins de 18 ans

Visite guidée : supplément de 7 € par personne
gratuit pour les moins de 10 ans

Exercice 2 : on considère les trois documents suivants, qui concernent le château de Versailles.

1. Combien de temps a duré la construction de la Galerie des Glaces ?
2. De combien d'année le règne de Louis XV a-t-il été plus long que le règne de Louis XVI ?
3. A ce jour, combien reste-t-il de miroirs d'origine dans la Galerie des Glaces ?
4. Une famille de deux adultes et trois enfants (de 4 ans, 8 ans et 13 ans) souhaite se rendre à la Galerie des Glaces. Quelle somme économise-t-elle en achetant des billets au tarif réduit par rapport au tarif plein ?

Doc. 1 La monarchie française de 1610 à 1792



Doc. 2 La galerie des Glaces en quelques chiffres

La galerie des Glaces du château de Versailles a été conçue par l'architecte Jules Hardouin-Mansart et construite entre 1678 et 1684. Elle mesure 73 mètres de long, 10,50 mètres de large et 12,30 mètres de hauteur. Elle comporte 17 fenêtres cintrées faisant face à 17 arcades, chacune ornée de 21 miroirs identiques. Chaque miroir occupe une surface de 0,65 m^2. Depuis sa création, 48 miroirs ont été changés, les autres sont d'origine.

Chaque année, elle accueille 3,5 millions de visiteurs.

Doc. 3 Billetterie

Plein tarif
15 € adulte — 13 € pour les moins de 18 ans

Tarif réduit *(comité d'entreprise)*
13,50 € adulte — 11,50 € pour les moins de 18 ans

Visite guidée : supplément de 7 € par personne
gratuit pour les moins de 10 ans